التوزيع الاحتمالي :

١ استخدام التباديل والتوافيق في الاحتمالات

التباديل (عدد طرق ترتيب مرتب مراعاة ترتيبهم) $ن ل ر$

$$ن ل ر = \frac{ن!}{(ن-ر)!}$$

مضروب العدد

nPr ← تباديل

$7 \text{ shift} \times 5$

$7P5 = 2520$

التوافيق (اختيار بدون ترتيب ثم سحب) $ن ر$

$$ن ر = \frac{ن!}{ر!(ن-ر)!}$$

تقسيم ÷

$7 \text{ shift} \div$

$7C5 = 21$

$$= \binom{٧}{٥}$$

١ ٢ ٣ ٤ ٥ ٦ ٧

(٧) ٢

عندما يكون احتمال (كسر) — العدد المطلوب / العدد الكلي

الاحتمال ← ٠ ، ١

احتمال أن تختار فاكهة: $\frac{١٥}{٢٠}$

فاكهة ٠

---

* لدى سيف ١٠ زوجاً من الجوارب ٨ منها حمراء، و ٦ زرقاء و ٤ خضراء اللون، تم سحب زوج واحد من الجوارب عشوائياً، ما احتمال ان يكون أخضر اللون؟! ما احتمال؟!

حمراء ٨ ، حراب ١٠ ، زرقاء ٦ ، خضراء ٤

$$= \frac{٢}{١٠} = \frac{١}{٥}$$

---

* يراد اختيار ٥ موظفين من بين ٩ رجال، ٦ نساء، فوجد:

$٩ + ٦ = ١٥$

رجال ٩ ، نساء ٦

(١) عدد طرق اختيار ٣ رجال و امرأتين

$$= ٩ل٣ \times ٦ل٢ = ١٥١٢٠ \text{ طريقة}$$

(٢) احتمال اختيار ٣ رجال و امرأتين.

$$= \frac{\text{المطلوب}}{\text{المجموع الكلي}} = \frac{(٩ن٣) \times (٦ن٢)}{(١٥ن٥)} = \frac{٦٠}{١٤٣} = ٠.٤١٩$$

$9 \text{ shift} \div 3$

$9C3$

$15 \text{ shift} \div 5$

$15C5$

احتمال (٠ ← ١)

[٣] احتمال أن يكون بينهم رجلان على الأكثر ؟

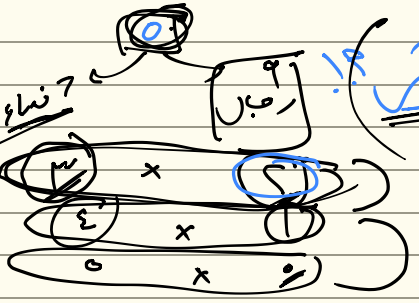

$$= \frac{\binom{9}{2}\times\binom{6}{3} + \binom{9}{1}\times\binom{6}{4} + \binom{9}{0}\times\binom{6}{5}}{\binom{15}{5}}$$

← مجموع كلي

$$= \frac{41}{143} = 0.287$$

[٤] احتمال أن يكون بينهم ٤ نساء على الأقل ؟



$$\frac{\binom{6}{4}\times\binom{9}{1} + \binom{6}{5}\times\binom{9}{0}}{\binom{15}{5}}$$

$$= \frac{47}{1001} = 0.047$$

[٥] احتمال أن يكون عدد النساء أقل من ٣ ؟ ١٢ ٢ ١ .

على الأكثر وعلى الأقل

٣ العكس على الأكثر ٢ سيارات

لها الأعداد الأقل من ٢

← على الأقل ٢ سيارات ← ٢ ← ....

أقل من ، أكثر من

على الأكثر ٣ : ٣ ٢ ١ .

أقل من ٣ = ٢ ١ .

$$\frac{\binom{9}{3}\times\binom{6}{2} + \binom{9}{4}\times\binom{6}{1} + \binom{9}{5}\times\binom{6}{0}}{\binom{15}{5}}$$

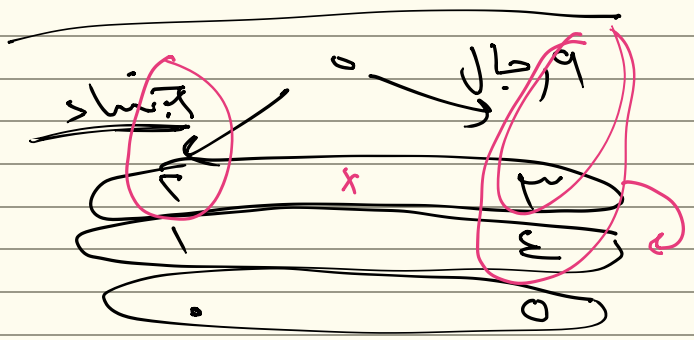

$$= \frac{102}{143} = 0.713$$

تباديل ← ترتيب

اختيار ← توافيق $(ن\ ر)$

١) اختير طفلان عشوائيًا من مجموعة مكوّنة من ستة أولاد وأربع بنات. استخدم التوافيق لتجد احتمال أن يكون الطفلان:

أ ولدَين. ب بنتَين. ج بنتًا وولدًا.

٢) اختيرت أربع حبات موز عشوائيًا من صندوق يحتوي على ١٧ حبة موز صفراء اللون، و ٢٣ حبة موز خضراء اللون. أوجِد احتمال:

أ أن لا توجد حبات موز خضراء. ب أقل من نصف الحبات المختارة خضراء.

٣) يختار أمين أحد المعارض عشوائيًا، ثماني قطع للعرض من بين ٣٦ لوحة تشكيلية، ٤٤ لوحة فنية. أوجِد احتمال أن يتضمن العرض على الأقل ثلاث لوحات تشكيلية أكثر من اللوحات الفنية.

٤) في صندوق للأدوات الصناعية ٢٥ مفكًا، ١٦ رأس مثقاب، ٣٨ مفتاحًا، ١١ إزميلًا. أوجِد احتمال اختيار أربع أدوات ليس من بينها أيّ إزميل.

٥) يزرع حمد ٩ شُجيرات في حديقة منزله في صف واحد عشوائيًا: ٣ منها تزهر ورودًا حمراء، ٦ تزهر ورودًا صفراء. احسب احتمال أن:

أ تقع شجيرة منها تزهر وردة صفراء في المنتصف.

ب لا تكون الشجيرات الثلاث التي تزهر ورودًا حمراء متباعدة.

ج لا تكون الشجيرتان اللتان تزهران ورودًا حمراء متجاورتَين.

٦) مجموعة من ١٨٠ شخصًا، تضم ٨٨ رجلًا تسعة منهم يستخدمون يدهم اليسرى للكتابة، وتضم أيضًا ٨٥ أنثى لا يستخدمن اليد اليسرى. إذا اختير ستة أشخاص من المجموعة عشوائيًا، فأوجِد احتمال أن يكون أربعة منهم يستخدمون اليد اليسرى أو إناثًا.

٧) في مكتبة صغيرة ١٢٤٠ كتابًا مقسمة إلى: ٤٧٨ رواية ويرمز إليها (ر)، منها ٣١٢ رواية مجلدة بغلاف صلب ويرمز إليها (ص)، ويوجد أيضًا ٤٤٠ كتابًا مجلدًا بغلاف غير صلب. بعض هذه المعلومات مبيّن على مخطط فن.

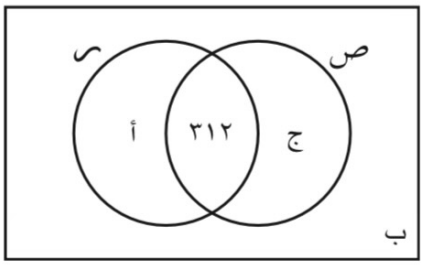

أ أوجِد قيمة كلٍّ من: أ، ب، ج.

ب اختير ٢٥ كتابًا عشوائيًا ليتم التبرع بها إلى جمعية خيرية، وتأمل الجمعية أن يكون من بينها على الأقل ٢٢ رواية أو كتابًا مجلدًا بغلاف صلب. احسب احتمال أن تحصل الجمعية الخيرية على ما تأمل.

٢) اختيرت أربع حبات موز عشوائيًا من صندوق يحتوي على ١٧ حبة موز صفراء اللون، و ٢٣ حبة موز خضراء اللون. أوجِد احتمال:

أ أن لا توجد حبات موز خضراء. ب أقل من نصف الحبات المختارة خضراء.



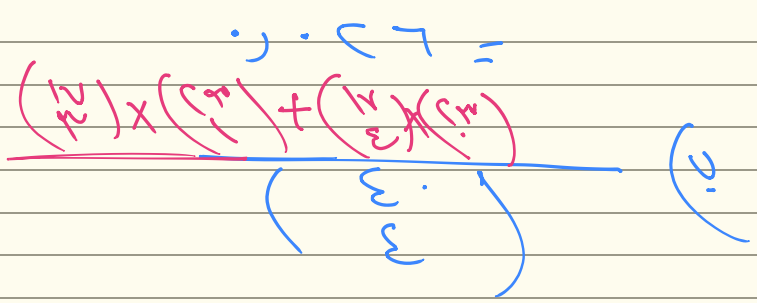

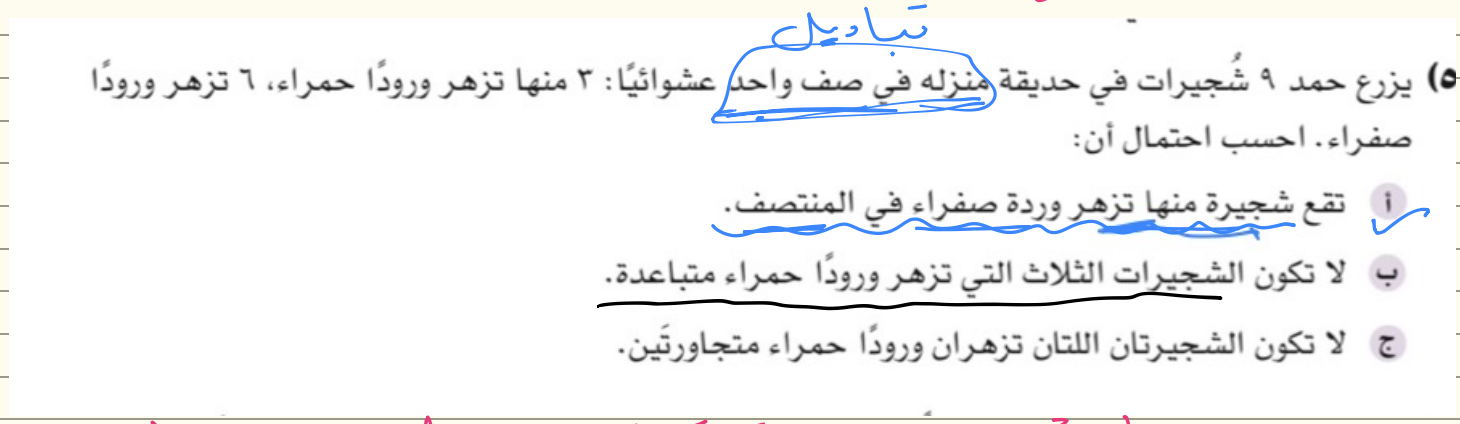

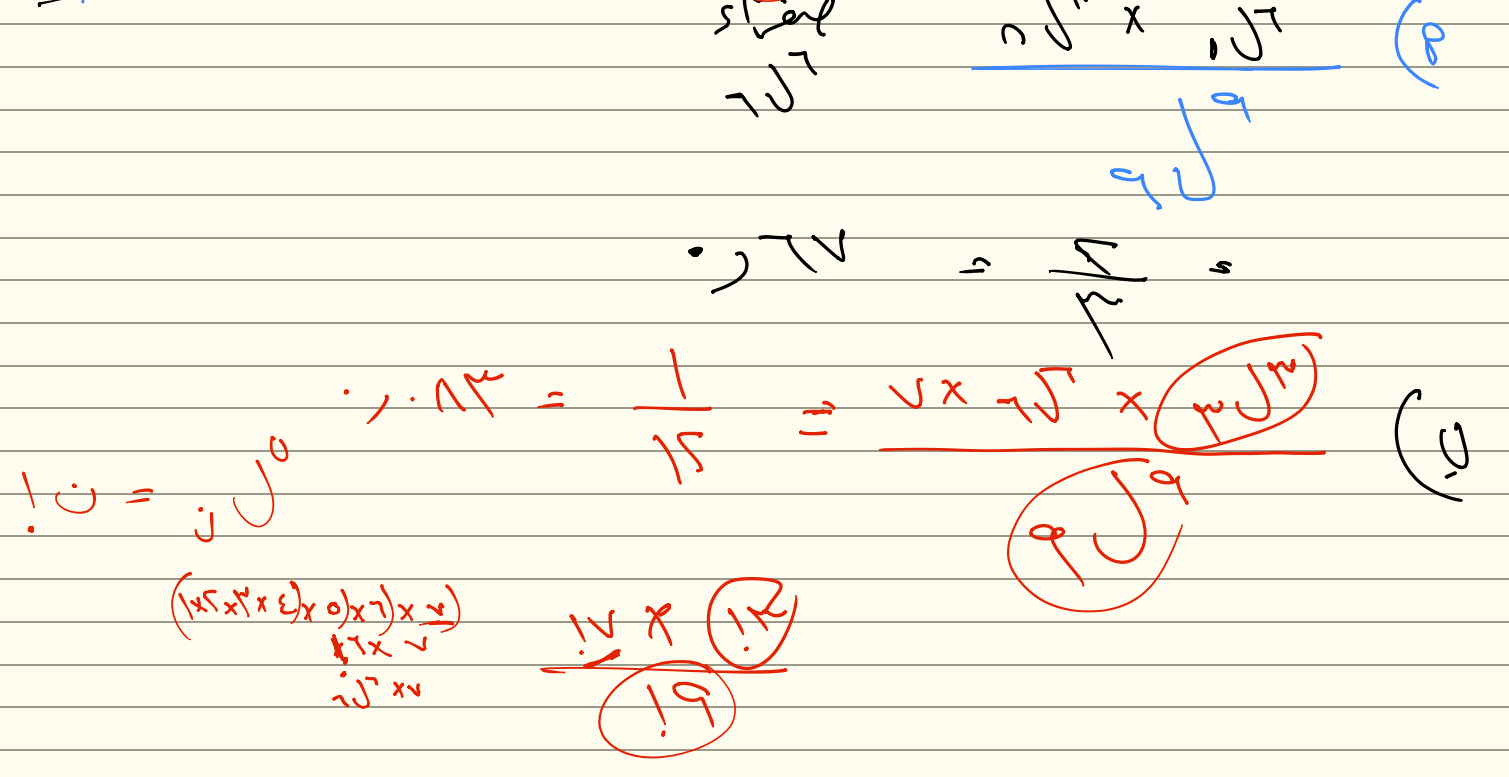

ج لا تكون الشجيرتان اللتان تزهران ورودًا حمراء متجاورتَين.